تم تحميل وعرض المادة من


منهجي
mnhaji.com

موقع منهجي منصة تعليمية توفر كل ما يحتاجه المعلم
والطالب من حلول الكتب الدراسية وشرح للدروس
بأسلوب مبسط لكافة المراحل التعليمية وتوازيع
المناهج وتحاضير وملخصات ونماذج اختبارات وأوراق
عمل جاهزة للطباعة والتحميل بشكل مجاني

حمل تطبيق منهجي ليصلك كل جديد













موقع منهجي
mnhaj.com

اختبار العلوم الفترة الثانية للصف الثاني الابتدائي الفصل الدراسي الأول لعام ١٤٤٨ هـ

اسم الطالب/ـة : ..... الصف : .....

السؤال الأول / من خلال الصور التالية نحدد أشكال اليابسة :

(سهل – جبل – وادي – تلال)



.....



.....



.....



.....

السؤال الثاني /

صل مصادر المياه بطبيعتها :

البحار

الوديان

العيون

مالحة

عذبة

السدود

المحيطات

السؤال الثالث /

اضع الكلمات التالية في مكانها المناسب:

(الماء – اليابسة)



.....

.....

السؤال الرابع /



١. ما الدور الذي يمثله كلٌّ من الطائر والدودة في الصورة المقابلة في السلسلة الغذائية؟

- الدُّودَةُ في الصُّورَةِ المُقَابِلَةِ هيَ.....
- الطَّائِرُ في الصُّورَةِ المُقَابِلَةِ هُو.....

أُرَتِّبُ السِّلْسِلَةَ الْغِذَائِيَّةَ التَّالِيَةَ بِوَضْعِ الْأَرْقَامِ (١-٢-٣-٤) فِي الْمَكَانِ الْمُنَاسِبِ :

 ☐  ☐  ☐  ☐

٢- من الحيوانات التي تعيش في الصحراء:

		

٣- موطن بارد جداً وجاف:

المنطقة القطبية	الصحراء الحارة	الغابة

السؤال الخامس / نصل بين كل صورة والعبارة المناسبة :

تربة زراعية (سطحية) فيها كثير من الدبال

تربة طينية

تربة رملية







تمنياتي لكم بالتوفيق

موقع منهجي
mnhaji.com

نموذج الإجابة

موقع منهجي
mnhaji.com

اختبار العلوم الفترة الثانية للصف الثاني الابتدائي الفصل الدراسي الأول لعام ١٤٤٨ هـ

اسم الطالب/ـة : ..... الصف : .....

السؤال الأول / من خلال الصور التالية نحدد أشكال اليابسة :

(سهل – جبل – وادي – تلال)



جبل.....



سهل.....



تلال.....



وادي.....

السؤال الثاني /

صل مصادر المياه بطبيعتها :

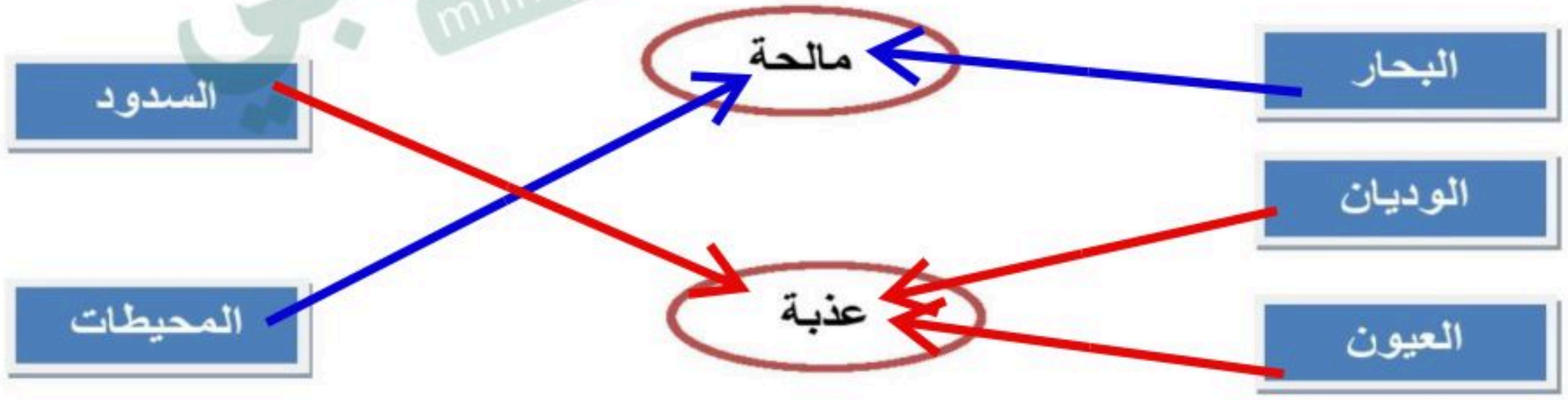

السؤال الثالث /

اضع الكلمات التالية في مكانها المناسب:

(الماء – اليابسة)

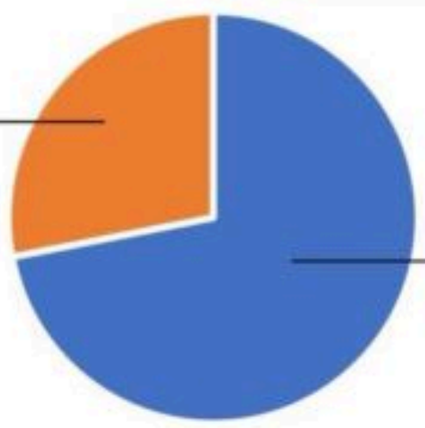

.....اليابسة.....

.....الماء.....

موقع منهجي
mnhaji.com

السؤال الرابع /



١. ما الدور الذي يمثله كلٌ من الطائر والدودة في الصورة المقابلة في السلسلة الغذائية؟

- الدُّودةُ في الصُّورةِ المُقابِلةِ هي.....الفريسة.....
- الطَّائرُ في الصُّورةِ المُقابِلةِ هُو.....المفترس.....

أُرَتِّبُ السِّلْسِلَةَ الْغِذَائِيَّةَ التَّالِيَةَ بِوَضْعِ الْأَرْقَامِ (١–٢–٣–٤)فِي الْمَكَانِ الْمُنَاسِبِ :



١



٢



٤



٣

٢- من الحيوانات التي تعيش في الصحراء:

		
		العقرب

٣- موطن بارد جداً وجاف:

المنطقة القطبية	الصجراء الحارة	الغابة

السؤال الخامس / نصل بين كل صورة والعبارة المناسبة :







تربة زراعية (سطحية) فيها كثير من الدبال

تربة طينية

تربة رملية

موقع منهجي
mnhaji.com

تمنياتي لكم بالتوفيق

موقع منهجي
mnhaji.com

اختبار الفترة الثانية للفصل الدراسي الأول للعام 1448هـ للصف الثاني لمادة العلوم

الاسم: ..... الصف 2/

السؤال الأول : اختار الإجابة الصحيحة :

1- موطن حــار وجــاف يسمى :

الصحراء	المحيط	الغابة

2- من حيوانات الصحراء الحارة :

الدب القطبي	الجمل	السمكة

3- " المكان الذي تعيش فيه المخلوقات الحية وتجد غذائها "

الفريسة	المفترس	الموطن

4- حيوان يصطاد حيوانات أخرى ليتغذى عليها يسمى :

المفترس	البيئة	الموطن

5-موطن الدب القطبي هو :

حار وجاف	بارد وثلوج	عشبي رطب

6- السنجاب والغزال ونقار الخشب من حيوانات :

المحيط	الصحراء	الغابة

7- " من أشكال اليابسة"

الجبال	الانـهار	المحيطات

8- موطن تتساقط فيه الأمطار بشكل يومي تقريباً:

القطب المتجمد	الغابات المطيرة	الصحراء

9- الأمطار من أمثلة الماء :

المالح	السطحي	العذب

10- هو أرض منخفضة واقعة بين ارتفاعين :

الوادي	الجبل	التل

11- هو تجمع كبير وعميييق من المياة المالحة:

النـهر	المحيط	الوادي

12- ترتيب يوضح تتابع الذي يحصل عليه المخلوق الحي على غذائه :

مفترس	الفريسة	السلسلة الغذائيّة

13- في السلسلة الغذائية التالية يتغذا الأرنب على :



الجزر	الذئب	الاسد

السؤال الثاني : اسمي المواطن التالية (الغابة ، الصحراء ، القطب المتجمد) :







1-.....

.....-2

.....-3

السؤال الثالث: ارتب السلسلة الغذائية التالية :







تمنياتي للجميع بدوام التفوق والنجاح

معلمات المادة: سارة مباركي & رانيا الحربي

موقع منهجي
mnhaji.com

نموذج الإجابة

موقع منهجي
mnhaji.com

اختبار الفترة الثانية للفصل الدراسي الأول للعام 1448هـ للصف الثاني لمادة العلوم

الاسم: ..... الصف 2/

السؤال الأول : اختار الإجابة الصحيحة :

1- موطن حـــار وجـــاف يسمى :		
الصحراء	المحيط	الغابة
2- من حيوانات الصحراء الحارة :		
الدب القطبي	**الجمل**	السمكة
3- " المكان الذي تعيش فيه المخلوقات الحية وتجد غذائها "		
الفريسة	المفترس	**الموطن**
4- حيوان يصطاد حيوانات أخرى ليتغذى عليها يسمى :		
المفترس	البيئة	الموطن
5-موطن الدب القطبي هو :		
حار وجاف	**بارد وثلوج**	عشبي رطب
6- السنجاب والغزال ونقار الخشب من حيوانات :		
المحيط	الصحراء	**الغابة**
7- " من أشكال اليابسة"		
الجبال	الانـهار	المحيطات
8- موطن تتساقط فيه الأمطار بشكل يومي تقريباً:		
القطب المتجمد	**الغابات المطيرة**	الصحراء
9- الأمطار من أمثلة الماء :		
المالح	السطحي	**العذب**
10- هو أرض منخفضة واقعة بين ارتفاعين :		
الوادي	الجبل	التل
11- هو تجمع كبير وعميييق من المياة المالحة:		
النـهر	**المحيط**	الوادي
12- ترتيب يوضح تتابع الذي يحصل عليه المخلوق الحي على غذائه :		
مفترس	الفريسة	**السلسلة الغذائيّة**
13- في السلسلة الغذائية التالية يتغذا الأرنب على :		



الجزر	الذئب	الاسد

موقع منهجي
mnhaji.com

السؤال الثاني : اسمي المواطن التالية (الغابة ، الصحراء ، القطب المتجمد) :







1-.....القطب المتجمد

2-.....الصحراء

3-.....الغابة

السؤال الثالث: ارتب السلسلة الغذائية التالية :







2 ← 1 ← 3

تمنياتي للجميع بدوام التفوق والنجاح

موقع منهجي

mnhaji.com

موقع منهجي
mnhaji.com

٢٠

اختبار الفترة الثانية لمادة العلوم للصف الثاني الفصل الدراسي الأول ١٤٤٨هـ

اسم الطالب / ة ..... الصف:

(أ) نضع علامة (√) أمام العبارات الصحيحة وعلامة (✗) أمام العبارات الخاطئة :

(1) الموطن هو مكان تعيش فيه المخلوقات الحية . ( )

(2) تبدأ معظم سلاسل الغذاء بالشمس . ( )

(3) المخلوقات التي تعيش في الصحراء تحتاج الى كثير من الماء . ( )

(4) نباتات المنطقة القطبية صغيرة وقصيرة لتحتمي من الرياح . ( )

(5) للنباتات الصحراوية سيقان وأوراق تخزن الماء. ( )

(6) المفترس حيوان يصطاد حيوانات أخرى ليتغذى عليها . ( )

ب) نرتب السلسلة الغذائية من (١- ٤) :


.....


.....


.....


.....

(ج) صل المفردة العلمية بالعبارة المناسبة لها:

الغابة المطيرة	موطن جاف حار قليل الامطار
الصحراء	موطن تتساقط فيه الامطار كل يوم
الفريسة	الذي يصطاده الحيوان المفترس

(د) أي العبارات التالية تصف الموطن اللذي توضحه الصورة ؟

أ- عشبي رطب **ب بارد ثلج**



تمنياتي لكم بالتوفيق والنجاح

معلمة المادة / أسرار الدوسري مديرة المدرسة/ رانية الفاضل

موقع منهجي
mnhaji.com

نموذج الإجابة

٢٠

اختبار الفترة الثانية لمادة العلوم للصف الثاني الابتدائي الفصل الدراسي الاول ١٤٤٨هـ

اسم الطالب / ة ..... الصف:

(أ) نضع علامة (√) أمام العبارات الصحيحة وعلامة (✗) أمام العبارات الخاطئة :

(1) الموطن هو مكان تعيش فيه المخلوقات الحية . (✓)

(2) تبدأ معظم سلاسل الغذاء بالشمس . (✓)

(3) المخلوقات التي تعيش في الصحراء تحتاج الى كثير من الماء . (✗)

(4) نباتات المنطقة القطبية صغيرة وقصيرة لتحتمي من الرياح (✓)

(5) للنباتات الصحراوية سيقان وأوراق تخزن الماء. (✓)

(6) المفترس حيوان يصطاد حيوانات أخرى ليتغذى عليها . (✓)

ب) نرتب السلسلة الغذائية من (١- ٤) :


٢


٣


١


٤

(ج) صل المفردة العلمية بالعبارة المناسبة لها:

الغابة المطيرة	موطن جاف حار قليل الامطار
الصحراء	موطن تتساقط فيه الامطار كل يوم
الفريسة	الذي يصطاده الحيوان المفترس

موقع منهجي mnhaji.com

(د) أي العبارات التالية تصف الموطن اللذي توضحه الصورة ؟

أ- عشبي رطب　　ب بارد ثلج

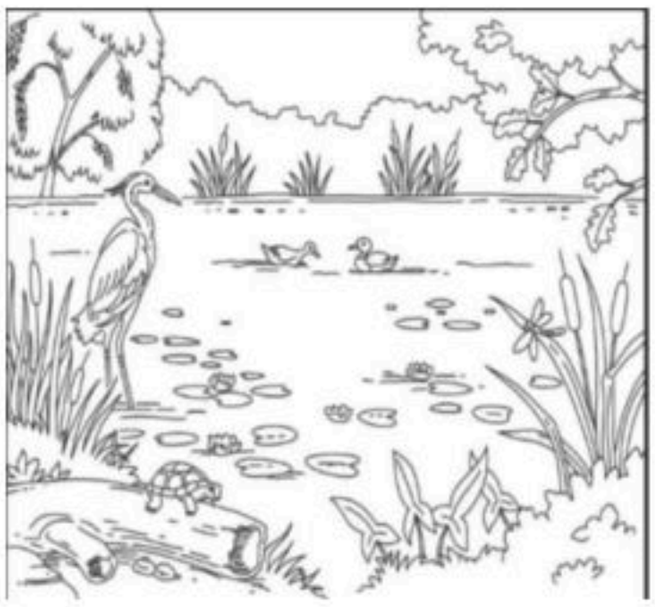

موقع منهجي
mnhaji.com
تمنياتي لكم بالتوفيق والنجاح

معلمة المادة / أسرار الدوسري　　مديرة المدرسة/ رانية الفاضل

اسم الطالب : .....

الصف : ٢ /

موقع منهجي
mnhaji.com

اختبار الفترة ٢ لمادة علوم الصف الثاني الفصل الدراسي الأول لعام ١٤٤٨ هـ

السؤال الأول : ضع علامة (✓) أمام العبارة الصحيحة و علامة (✗) أمام العبارات الخاطئة ؟

١- تحتاج الحيوانات للماء و الغذاء و الهواء و المأوى .	( )
٢- تقوم الجذور في النبات بصنع الغذاء .	( )
٣- الزهرة جزء النباتات الذي ينمو لينتج نباتا جديدا .	( )
٤- الموطن مكان يعيش فيه المخلوق الحي و يجد فيه حاجاته .	( )
٥- نباتات الصحاري الحارة صغيرة و قصيرة تنمو بالقرب من سطح الأرض	( )
٦- الغابة المطيرة موطن تسقط فيه الأمطار كل يوم تقريبا	( )

السؤال الثاني : رتب دورات حياة المخلوقات الحية التالية ؟


( )


( )

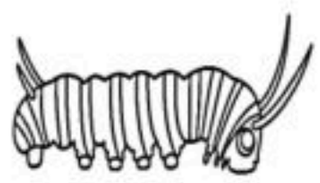
( )


( )

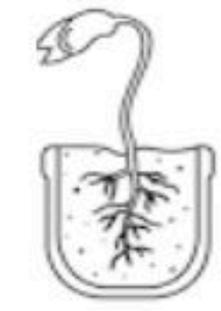
( )


( )


( )


( )


( )

السؤال الثالث : أكمل الفراغات التالية بالكلمة المناسبة ؟

(الطريقة العلمية – دورة الحياة – البرمائيات – الفريسة – الصحراء الحارة)

١- ..... حيوان يصطاده حيوان مفترس .

٢- ..... تعيش فيها حيوانات الذئب و القط البري و العقرب .

٣- ..... تبين كيف ينمو المخلوق الحي و يعيش و يتكاثر ثم يموت .

٤- ..... ألاحظ – أسأل – أكون فرضية – اختبر الفرضية – النتائج .

٥- ..... تبدأ دورة حياتها في الماء و جلدها رطب .

السؤال الرابع : أختر الإجابة الصحيحة فيما يلي ؟

١- يشير السهم إلى .

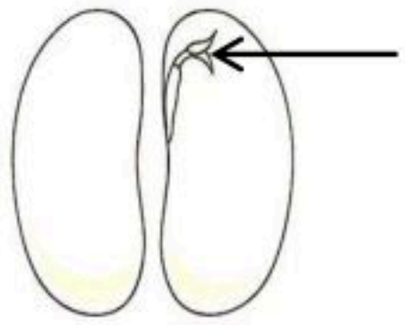

- o غلاف البذرة
- o جنين البذرة
- o غذاء الجنين

٢- وظيفة الورقة .



- o نقل الماء و الغذاء
- o امتصاص الماء و الأملاح
- o صنع الغذاء

٣- يستخدم الثعبان موطنه .



- o للاختباء
- o للنوم
- o للمأوى

٤- يصنف الجراد من الحشرات لأن عدد أرجله .

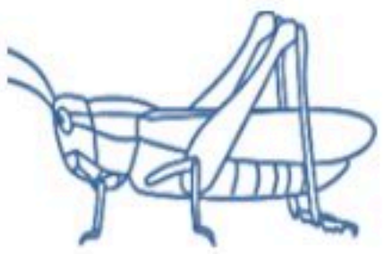

- o ٥ أرجل
- o ٦ أرجل
- o ٧ أرجل

٥- تعيش النمور في موطن .



- o الصحاري الحارة
- o الغابة
- o الغابة المطيرة

٦- يمثل الموطن المجاور .



- o عشبي دافئ
- o عشبي رطب
- o بارد فيه ثلوج

السؤال الخامس : أجب عن الأسئلة التالية ؟



١- نوع الموطن : .....

٢- شيء غير حي : .....

٣- مخلوق حي : .....

٤- حيوان مفترس : ..... الفريسه : .....

٥- حشرة : .....

٦- كون سلسلة غذائية : .....

.....

انتهت الأسئلة

موقع منهجي
mnhaji.com